Протокол

проведения школьного этапа всероссийской олимпиады школьников в 2020-2021 уч.году

Предмет _география

Количество участников 6

Место проведения __МБОУ Можарская СОШ 315

Дата проведения __01.10.2020 год

№ п/п	Шифр работы	Ф.И.О. участника	Класс	Количество баллов	Место
1		Тарасова Виктория	7	29	1
2		Соболев Илья	7	17	
3		Кашинцев Антон	9	64	
4		Четверикова Мария	9	90	1
5		Брынских Любовь	10	10	
6		Витовтова Дарья	11	17	1
7		Вектренко Данила	8	36	1
8		Дужая Юлия	8	27	
9					
10					

Председатель жюри: _____/_Галета И. А.

подпись расшифровка подписи

Члены жюри: _____/_Болсуновский А.Н.

подпись расшифровка подписи

_____/_Ветренко Т. И.

подпись расшифровка подписи

_____/_Вороновская С.И.

подпись расшифровка подписи

_____/_____

подпись расшифровка подписи

Тарасова В.

Школьный этап Всероссийской олимпиады школьников по географии

2020 – 2021 учебный год

Курагинский район

География 7 класс

Инструкция по выполнению работы

Время на выполнение работы – 1 час.
Максимальное количество баллов – **56**.

Внимательно прочитайте каждое задание. Запишите не только ответы на поставленные вопросы, но и весь ход ваших рассуждений, если это указано в задании Ответ записывайте разборчиво.

Примечание. Не разрешается пользоваться школьными атласами и другими источниками информации.

Желаем успеха!

Тестовый раунд

За каждый правильный ответ - по 1 баллу;
Максимальная оценка – 12 баллов

1. Какому азимуту соответствует направление на запад-северо-запад (ЗСЗ)?

1) 180°; 2) 292,5°; 3) 90°; 4) 202,5°.

2. Какие географические координаты имеет точка, обозначенная на карте России буквой А?

1) 70° с.ш. 60° в.д.
2) 60° с.ш. 70° в.д.
3) 70° с.ш. 60° з.д.
4) 60° с.ш. 70° з.д.

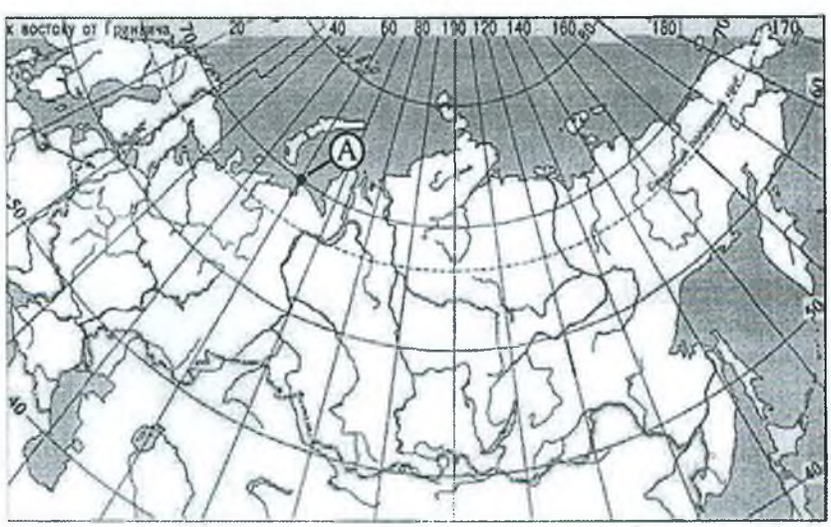

3. Выберите правильное утверждение, в котором указаны материки по мере увеличения их площади:

1) Австралия, Антарктида, Северная Америка, Южная Америка, Африка, Евразия;

2) Евразия, Африка, Северная Америка, Южная Америка, Антарктида, Австралия;

3) Австралия, Антарктида, Южная Америка, Африка, Северная Америка, Евразия;

4) Австралия, Антарктида, Южная Америка, Северная Америка, Африка, Евразия.

4. Какое утверждение о земной коре верно?

1) Земная кора под материками и океанами имеет одинаковое строение.
2) Под океанами мощность земной коры больше, чем под материками.
3) Границы литосферных плит совпадают с контурами материков.
4) Литосферные плиты медленно перемещаются по поверхности мантии

5.



Утром Катя посмотрела на термометр, висящий за окном. Какому из советов должна последовать Катя на основании показаний термометра?

1) На улице солнечно, но судя по прогнозам, погода может измениться.

2) На улице тепло, 22 градуса выше нуля. Можно собираться на речку купаться.

3) Термометр предупреждает, что погода в течение дня может испортиться и сильно похолодает.

4) Погода солнечная, но прохладно. Температура чуть выше нуля.

6. Установите соответствие: «Море – океан, к которому оно относится»:

А) Красное, В) Баренцево,
Б) Карибское, Г) Южно-Китайское

1) Тихий	2) Северный Ледовитый	3) Индийский	4) Атлантический
Г	В	А	Б

7. Когда оба полушария Земли освещены одинаково:

1) 21 марта
2) 22 июня
3) 15 сентября
4) 1 января

8. Какие части гидросферы нельзя видеть на физической карте мира:

1) Мировой океан
2) Воды атмосферы
3) Подземные воды
4) Поверхностные воды

Аналитический раунд

Задание 1. **Среди буквенной неразберихи отыщите и вычеркните слова, связанные с понятием «полезные ископаемые».**

(*По 1 баллу за каждый верный ответ).*

Какие три полезных ископаемых используются в качестве топлива?

(3 балла).

Максимальная оценка - 8 баллов

Ь	Т	Т	И	Р	О		**Найденные слова:**
Я	Ф	Е	О	С	Ф		1.
Т	Н	Н	Ф	Т	Ь		2.
И	Ф	А	Ь	Л	О		3.
Ы	Ц	Р	Г	А	Г		4.
Р	Н	А	Л	С	У		5.

Полезные ископаемые, использующиеся в качестве топлива:

Задание 2. **Подберите к каждому термину левой колонки определение из правой колонки.**

(*По 1 баллу за каждый верный ответ).*

Максимальная оценка - 12 баллов

1. Беллинсгаузен	а) Создатель первого глобуса.

2. Австралия	б) Первооткрыватель Антарктиды.
3. Америка	в) Имя Колумба.
4. Чертеж	г) Первая карта.
5. Тихий	д) Руководитель первой кругосветной экспедиции в 1519-1522 г.
6. Эратосфен	е) Океан, впервые пересеченный европейцами в XVI в.
7.Лазарев	ж) Прибор, изобретение которого способствовало развитию мореплавания.
8. Антарктида	з) Материк, который открыли самым последним.
9.Компас	и) Греческий ученый, первым составивший карту мира и вычисливший размеры Земли.
10. Магеллан	к) Часть света, открытая Колумбом.
11. Христофор	л) Материк, открытый в XVII в.
12. Бехайм	

11 **Ответ: 1 -Б 2 -А 3 -К 4 -Г 5 -Е 6 -И 7 - 8 -З 9 -Н 10 -Д 11 -В 12 – А**

Задание 3. **Вам предложены некоторые субъекты Российской Федерации. Некоторые из них являются соседями Красноярского края. Заполните предложенную таблицу буквами, соответствующими названиям этих субъектов.**

(По 1 баллу за каждый верный ответ).

Максимальная оценка - 10 баллов

А) Иркутская область

Б) Республика Хакасия

В) Курганская область

Г) Пермский край

Д) Тюменская область

Е) Ямало-Ненецкий автономный округ

Ж) Приморский край

З) Омская область

И) Республика Саха (Якутия)

К) Ненецкий автономный округ

Являются соседями	Б	~~Н~~	А	~~З~~	~~Г~~	
Не являются соседями	В	~~Д~~	~~Е~~	~~И~~	К	

4

Задание 4. **Прочитайте текст**

(По 2 балла За каждый верный ответ).

Максимальная оценка - 6 баллов.

Самое крупное течение в северной части Атлантического океана - теплое течение ……- часто называют рекой в океане. Ширина течения достигает 200 км. Каждую секунду это течение переносит в 60 раз больше воды, чем все реки мира вместе взятые. Скорость течения составляет около 10 км/ч; она значительно ускоряется с глубиной, но течение распространяется почти до океанского дна. В Северной Атлантике течение разделяется на несколько ветвей. Наиболее мощная ветвь - Северо-Атлантическое течение - огибает Европу, проникает в Баренцево море и прослеживается вплоть до берегов российских островов…… Это течение оказывает сильное отепляющее влияние на климат Европы.

Ответьте на следующие вопросы:

0

1) О каком течении идет разговор в тексте?_____
2) Найдите неверное утверждение и выпишите его.

_____

3) До каких российских островов доходит это течение?

_____

Задание 5. **Географические термины.**

Вычеркните «белую ворону» в каждом из следующих рядов географических терминов, назовите их:

(По 1 баллу за каждый верный ответ)

Максимальная оценка – 5 баллов

А.Тайга, пустыня, степь, тундра, ~~почва~~.
Б.Русло, ~~наводок~~, старица, пойма.
В.Природный газ, уголь, бензин, торф, ~~горючие сланцы~~.
Г.Снег, ~~циклон~~, дождь, роса, град, иней.
Д. Пальма, ~~джунгли,~~ секвойя, кедр, лиственница.

4

29

Ветренко Даниил

Школьный этап Всероссийской олимпиады школьников по географии

2020 – 2021 учебный год

Курагинский район

География 8 класс

Инструкция по выполнению работы

Время на выполнение работы – 90 минут.
Максимальное количество баллов – 66

Инструкция по выполнению работы

Олимпиада по географии состоит из 8 заданий. На выполнение работы отводится 90 минут.

Ответы на задания запишите в бланк ответов. В случае записи неверного ответа зачеркните его и запишите рядом новый.

Ответы к заданиям 1,2,3,5,6,7 записываются в виде слов, числа и слова (словосочетания) или последовательности цифр.

Работа содержит 2 задания 4 и 8, на которые следует дать развёрнутый ответ.

При выполнении работы не разрешается пользоваться учебником, рабочими тетрадями, атласом и другим справочным материалом.

Советуем выполнять задания в том порядке, в котором они даны. В целях экономии времени пропускайте задание, которое не удаётся выполнить сразу, и переходите к следующему. Если после выполнения всей работы у Вас останется время, то Вы сможете вернуться к пропущенным заданиям.

Баллы, полученные Вами за выполненные задания, суммируются. Постарайтесь выполнить как можно больше заданий и набрать наибольшее количество баллов.

Желаем успеха!

ШКОЛЬНЫЙ ЭТАП ВСЕРОССИЙСКОЙ ОЛИМПИАДЫ ШКОЛЬНИКОВ 2020-2021 гг. 8 класс.

Задание 1

2 балла

Представьте, что Вам было поручено взять интервью у зарубежного сверстника, чтобы он познакомил Вас со своей страной. Для иллюстрации этого интервью Вы попросили его прислать несколько фотографий, сделанных в стране, в которой он живёт. Рассмотрите фотографии и ответьте на вопросы. (Ответ запишите в бланк ответов)

1. **В какой стране живёт Ваш сверстник?**
2. **Как называется столица этой страны?**

Задание 2

3 балла

Рассмотрите представленные ниже рисунки. Укажите название стран и их столиц

А	Б	В

(Ответ запишите в бланк ответов)

Задание 3

12 баллов

Вам представлены портреты и результаты деятельности великих ученых-исследователей разных веков, сделавших выдающиеся открытия, внесших значительный вклад в развитие географической науки. Соотнесите их портреты с приведенными ниже описаниями исследований и заполните таблицу соответствия. Напишите их Ф.И. (Ответ запишите в бланк ответов)

1 2 3 4

А) Мореплаватель, офицер русского флота, руководил Первой и Второй Камчатскими экспедициями, прошел по проливу между Чукоткой и Аляской, открыл ряд островов.

Б) Русский и советский учёный-генетик, ботаник, селекционер, химик, географ, общественный и государственный деятель. Занимался глубоким изучением географии культурных растений земного шара.

В) Он первый указал на основные черты рельефа Южной Африки, изучил систему р. Замбези, положил начало научному исследованию больших озер Ньяса и Танганьика

1) Российский мореплаватель, адмирал, начальник первой русской кругосветной экспедиции на кораблях "Надежда" и "Нева", автор "Атласа Южного моря.

Задание 4

19 баллов

В ответе перечислите «географические небылицы», а также объясните и исправьте все географические ошибки. (Ответ запишите в бланк ответов)

1 сентября рассказал нам наш одноклассник, Саша Перепуткин, необыкновенную историю.

«Этим летом уехал я гостить к бабушке к устью Волги, в город Тверь. Как-то вечером отправился на рыбалку. Клёва долго не было, грести я устал и задремал. Проснулся только утром и понял, что ночью лодка сорвалась с якоря и несёт меня быстрое течение всё дальше и дальше. Кругом туман, мне берега не видно, вынесло меня течением Волги прямо в Азовское море.

Тут мне повезло. Увидели мою лодку с научно-исследовательского судна «Альбатрос», что занимается изучением рельефа дна Мирового океана; подобрал меня капитан и сказал: «Возвращаться нам некогда, пока поплывёшь с нами, а там посмотрим…»

Изучение океанической коры, которой сложено дно Азовского моря, –дело непростое. Я помогал с промерами глубин, средняя глубина составила 7 км, а максимальная 13,5 км. Вскоре мы миновали остров Крым и по Керченскому проливу вышли в Чёрное море.

Чёрное море неглубокое и шельфовое, с материковой корой, поэтому мы быстро его пересекли и, минуя пролив Ла-Манш, что отделяет Европу от Азии, вошли в Средиземное море. Мне рассказали, что раньше все эти моря – Чёрное,

Средиземное, Азовское и даже Каспийское – входили в состав огромного древнего океана Япетус. На крупнейшем острове Средиземного моря Крите мы сделали остановку. Учёные работали, экипаж отдыхал, а я посетил развалины Кносса, остатки древней шумерской цивилизации.

Далее через Панамский канал мы вошли в Красное море. В геологическом отношении впадина Красного моря является горстом, который образовался из-за столкновения двух литосферных плит в зоне субдукции. Далее по Бискайскому проливу мы попали в Индийский океан и взяли курс к Марианской впадине, которая, как известно, расположена к югу от островов Шри-Ланка. Расположенные в зоне спрединга, эти вулканические острова являются типичной островной дугой.

Дальше моё путешествие подошло к концу, так как уже близилось 1 сентября. Посадили меня на самолёт в столице Шри-Ланки Джакарте и отправили в столицу Индии Мумбаи, а оттуда прямым рейсом я прилетел в Москву. Жалко, что подобно новозеландцу Хиллари не удалось спуститься на самое дно Марианской впадины!»

Мы долго смеялись и наперебой разоблачали его небылицы. А Вы сможете это сделать.

Задание 5

12 баллов

В прямоугольнике спрятаны 6 географических понятий (слова можно найти, читая в любом направлении, только не по диагонали). Установите соответствия между определениями и понятиями, спрятанными в прямоугольнике. Ответы занесите в таблицу № 1 бланка ответов.

М	Е	Ж	Е	Н	Ь	К	А	С	П	И	Й
В	Л	А	Д	О	Ж	С	К	О	Е	Н	С
О	П	К	О	Т	И	Т	И	Ч	П	И	К
Л	О	С	Т	Л	О	К	К	А	А	Л	О
Г	Л	Е	Н	О	В	А	А	Д	В	Э	Е
А	О	А	А	С	И	Н	К	Б	О	Й	Д
О	В	В	Л	Т	Р	А	А	А	Д	Р	Н
Д	С	К	Е	А	Е	К	А	Й	О	К	Е
Ь	О	А	Н	Р	И	Ц	А	К	А	Л	П
Е	М	А	Р	А	Л	Ь	С	К	О	Е	Р

Таблица 1

№	Спрятанное понятие	Определение
1		Период, когда уровень воды в водоёме очень низкий
2		Небольшое озеро серповидной формы
3		Кратковременный подъём уровня воды
4		Ежегодный продолжительный подъём уровня реки
5		Углубления, в которых находятся озёра
6		Водный поток, текущий в выработанном им углублении – русле

Задание 6

4 балла

Из приведенного ниже виртуального перечня объектов выберите 3 достопримечательности находящиеся, на материке Евразия. Назовите страны, где расположены выбранные вами достопримечательности. (Ответ запишите в бланк ответов)

1

2



3

4



5

6

7



8

5 баллов

Внимательно прочитайте текст и определите, о каком острове Земли идёт речь. (Ответ запишите в бланк ответов)

Это самый крупный по площади остров на земном шаре среди островов аналогичного с ним происхождения. Остров расположен на границе двух литосферных плит, южнее параллели 66,5°с.ш., в океане, солёность которого чуть выше солёности Мирового океана. Северные, западные и восточные берега острова сформированы ледниками. Общая площадь современного оледенения составляет около 12 000 км 2 , что значительно меньше, чем на «острове-гиганте», который отделён от рассматриваемого нами острова проливом, названным по имени королевства, которому принадлежит соседний «остров-гигант».

Рельеф острова преимущественно гористый, здесь насчитывается более 150 вулканов, из них 40 действующие. Один из наиболее активных вулканов, высотой 1491 м, расположен неподалёку от столицы государства, имеющего то же название, что и остров. Извержения вулканов происходят постоянно. Например, извержение другого знаменитого вулкана в 2010 г. закрыло авиационное сообщение для многих стран региона. С вулканической деятельностью связаны знаменитые фонтанирующие горячие источники. Территория острова лежит в двух климатических поясах. Несмотря на северное положение, зимы здесь не такие суровые благодаря тёплому течению, проходящему у его берегов.

Задание 8

9 баллов

Пользуясь знаниями по географии, полученными в предыдущие годы, а также картами атласа, найдите ошибочный элемент в каждом логическом ряду. Обоснуйте своё исключение. Приведите название ещё одного объекта для продолжения логического ряда. Учтите, что все географические объекты должны характеризовать особенности географии. Ответы запишите в таблицу.

1) Католицизм – синтоизм – буддизм – христианство – ислам.

2) Титикака – Ильмень – Ла-Плата – Гурон – Эйр.

3) Аконкагуа – Денали (до 2015 г. Мак-Кинли) – Монблан – Орисаба –Народная.

Бланк ответов

Задание 1.

1. Австралия
2. Канберра

Задание 2.

1.
2.
3. Австралия Канберра

Задание 3.

1. А
2. Б
3. Д
4. В

Задание 4.

1. Волга не впадает в Азовское море
2. Альбатрос Военный корабль
3. Глубина Азовского моря 13 м.
4.
5.
6.
8.
9.
10.
11.
12.
13.
14.
15.
16.
17.
18.
19

Задание 7.

Греция

Задание 6.

1-Россия 5-Китай, 3-Индия

Задание 5.

Таблица 1

№	Спрятанное понятие	Определение
1	межень	Период, когда уровень воды в водоёме очень низкий
2		Небольшое озеро серповидной формы
3	паводок	Кратковременный подъём уровня воды
4		Ежегодный продолжительный подъём уровня реки
5	котловина	Углубления, в которых находятся озёра
6	река	Водный поток, текущий в выработанном им углублении – русле

Задание 8.

1. Наводнение Ниагара т.к. это направление а не реки. Правильно
2. Ладога т.к. это ~~[illegible]~~ пресные озёра. Байкал
3. Ориноко т.к. это вулкан Эверест. это вершины

Четверикова

Школьный этап Всероссийской олимпиады школьников по географии

2020 – 2021 учебный год

Курагинский район

География 9 класс

Инструкция по выполнению работы

Время на выполнение работы – 90 минут.
Максимальное количество баллов – 102

Задание I. Прочитайте предложенные вопросы, на каждый вопрос дайте только один правильный ответ. (Задания оцениваются в 1балл. Максимальное количество баллов – 30.)

1. **Выберите пару государств, с которым Россия имеет менее протяженную сухопутную границу:**
   1) Казахстан и Китай 2) Грузия и Азербайджан 3) КНДР и Норвегия 4) Польша и Литва
2. **Выберите город, расположенный севернее Полярного круга.**
   1) Анадырь 2) Архангельск 3) Якутск 4) Тикси
3. **Выберите неверную пару областей-соседей.**
   1) Свердловская-Челябинская 2) Орловская-Рязанская 3) Томская-Омская
   4) Тверская-Псковская
4. **В каком из перечисленных регионов России зимы наиболее холодные?**
   1) Калининградская область 2) Якутия 3) Астраханская область 4) Татарстан
5. **Примером рационального природопользования в зоне степей является.**
   1) проведение снегозадержания в зимнее время 2) осушение болот в верховьях рек
   3) распашка склонов на возвышенностях 4) добыча железной руды открытым способом
6. **Как называются особо охраняемая территория, разрешенная для посещения туристами?**
   1) заповедник 2) национальный парк 3) «Красная книга» 4) памятники природы
7. **Какой из перечисленных городов России находится в основной полосе расселения?**
   1) Мурманск 2) Волгоград 3) Магадан 4) Норильск
8. **Что означают цифры в таких названиях городов как: Арзамас-16, Челябинск-65, Томск-7:**
   1) это указана численность населения городов в тыс. чел.;
   2) это названия крупных железнодорожных станций;
   3) это закрытые административно-территориальные образования;
   4) число жилых дворов в этом поселении.
9. **Кто были первооткрывателями Антарктиды?**
   1) Ф.Ф. Беллинсгаузен и М.П. Лазарев 2. Руал Амундсен
   3. Джеймс Кук 4. Роберт Скотт
10. **Территорию какого государства Евразии часто сравнивают с «двумя мешками риса на коромысле»?**
    1. Японии 2. Кореи 3. Вьетнама 4. Индонезии
11. **Какой из перечисленных городов России является наиболее крупным по числу жителей?**
    1. Нижний Новгород 2. Ставрополь 3. Владивосток 4. Тюмень
12. **Группа туристов из Италии хочет своими глазами увидеть необычную для них природу российской тундры. Какой заповедник им необходимо для этого посетить?**
    1) Курильский 2) Таймырский 3) Оренбургский 4) Алтайский
13. **В каком областном центре располагается памятник «Родина-Мать»?**
    1) Саратов 2) Астрахань 3) Воронеж 4) Волгоград

14. **Плесецк (г. Мирный), Капустин Яр, Свободный. Выберите к какой категории объектов по назначению они относятся:**

1) это центры автомобилестроения; 2) это космодромы и центры испытания ракет и боевой техники;

3) крупные транспортные узлы; 4) места падения метеоритов

15. Укажите ряд, в котором все области и республики находятся в Азиатской части России:

а) Республика Алтай, Архангельская, Иркутская, Магаданская области;

б) Республика Бурятия, Амурская, Кемеровская, Омская области;

в) Республика Хакасия, Нижегородская, Новосибирская, Оренбургская области;

г) Республика Саха-Якутия, Чувашская республика, Иркутская, Сахалинская области;

16. Циклоны – это:

А. Воздушные массы, приносящие осадки

Б. Вихри с низким атмосферным давлением в центре

В. Вихри с высоким атмосферным давлением в центре

Г. Горизонтальное движение воздуха

17. Иммиграция – это:

А. Увеличение численности населения за счёт переселенцев из других стран

Б. Уменьшение численности населения за счёт отъезда населения в другие страны

В. Передвижение населения по территории страны

Г. Рост доли городского населения за счёт сельского

18. Кто из исследователей возглавил работу первой полярной станции на дрейфующей льдине:

А) О.Ю. Шмидт Б) Г.Я. Седов В) В.И. Беринг Г) И.Д. Папанин

19. Полюс холода Южного полушария находится:

А) На Южном поясе Б) На вершине горы Эребус

В) На станции Восток в Антарктиде Г) На полюсе недоступности в Антарктиде

20. Какие природные ресурсы можно отнести к невозобновимым:

А) Леса Б) Гумус В) Нефть Г) Водные ресурсы

21. Самым восточным из названных городов является:

А) Омск Б) Иркутск В) Смоленск Г) Магнитогорск

22. Какой буквой на политико-административной карте России обозначен Ненецкий автономный округ?

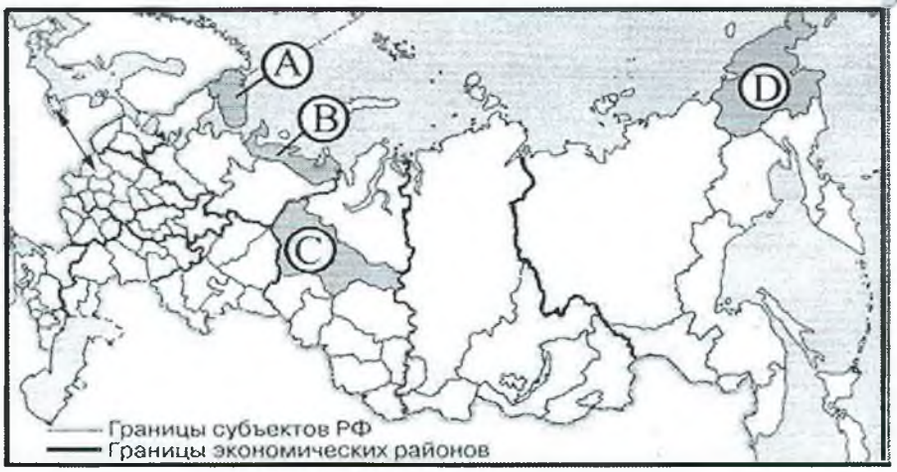

1. A **2.** B **3.** C **4.** D

23. Сухопутную границу с Россией имеют:

А) Азербайджан, Грузия Б) Польша, Болгария В) Швеция, Молдавия Г) Туркмения, Армения

24. Какой буквой на карте России обозначено Охотское море?

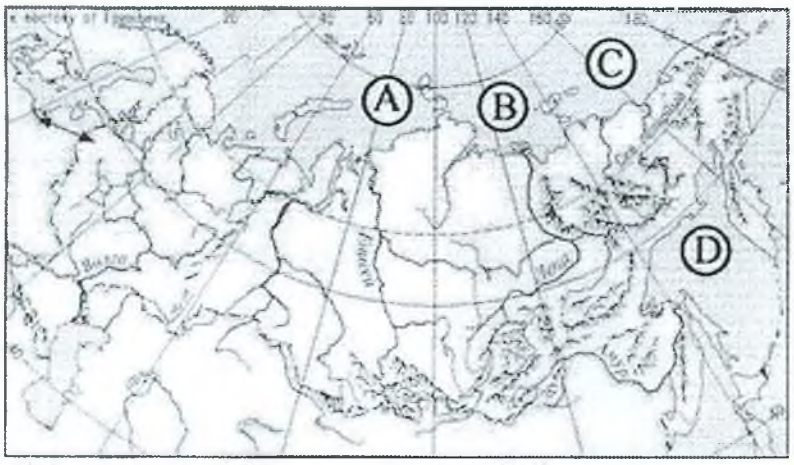

1

1.A 2.B 3. C 4.D

25. Какой из регионов, обозначенных буквами на карте России, имеет наименьшую среднюю плотность населения?

1

1.A 2. B 3. C 4. D

26. Самым солёным озером является:

1 А) Байкал Б) Каспийское В) Танганьика Г) Мичиган

27. В районе Черапуиджи находится:

А. Самое холодное место на Земле

Б. Самое жаркое место на Земле

1 В. Самое сухое место на Земле

Г. Самое влажное место на Земле

28. В каком городе выпадает наименьшее количество осадков?

1 А) Якутск Б) Москва В) Омск Г) Петропавловск-Камчатский

29. Самая крупная городская агломерация России , расположенная на Волге – это:

1 А) Красноярская Б) Вологодская В) Екатеринбургская Г) Нижненовгородская

30. В каком угольном бассейне преобладает добыча бурого угля?

1 А) Кузнецком Б) Печорском В) Канско-Ачинском Г) Южно-Якутском

Задание II. Установите соответствие.

(Каждое задание оценивается в 2 балла. Максимальное количество баллов – 14.)

1. Установите соответствие между республиками и их столицами.

25

1. Чувашия	А. Казань	1 - б
2. Башкортостан	Б. Элиста	2 - г
3. Татарстан	В. Чебоксары	3 - а
4. Калмыкия	Г. Уфа	4 - в

2. Установите соответствие между уровнем географического положения и его определением.

ОПРЕДЕЛЕНИЕ

25 1) положение России по отношению к приграничным, соседним государствам В

2) положение к группам стран (регионам) Европы и Азии а

3) положение по отношению к другим материкам, Мировому океану, миру в целом б

УРОВЕНЬ ГЕОГРАФИЧЕСКОГО ПОЛОЖЕНИЯ

а) мезоположение б) макроположение в) микроположение г) геоположение

3. Установите соответствие между горной породой и видом, к которому она относится:

Горная порода	**Вид горных пород по происхождению**
1. Кварцит	**А.** Осадочные обломочные
2. Гранит	**Б.** Осадочные химические
3. Щебень	**В.** Метаморфические
	Г. Магматические

2б

4. **Природные факторы, затрудняющие хозяйственное освоение территории:**

1. Заболоченность	**А.** Юг Дальнего Востока
2. Недостаток водных ресурсов	**Б.** Север Западной Сибири
3. Многолетняя мерзлота	**В.** Средний и Южный Урал
4. Тайфуны и наводнения	**Г.** Север Восточной Сибири

2б

5. Установите соответствие между страной и столицей:

1. Япония	**А.** Эр-Риад
2. Эфиопия	**Б.** Аддис-Абеба
3. Саудовская Аравия	**В.** Токио
4. Белоруссия	**Г.** Минск

0

6. **Установите соответствие между российским путешественником и открытием.**

1. С.И.Дежнев	**А.** исследование Центральной Азии
2. Н.М.Пржевальский	**Б.** первое русское кругосветное плавание
3. Ф.Ф.Беллинсгаузен	**В.** открытие пролива между Азией и Америкой
4. И.Ф.Крузенштерн	**Г.** открытие Антарктиды

2б

7. Установите соответствие между материком и географическим объектом.

1. Евразия	**А.** р.Муррей
2. Австралия	**Б.** г.Аконкагуа
3. Ю.Америка	**В.** пустыня Гоби
4. Африка	**Г.** вулкан Килиманджаро

2б

Задание III.

1) Определите по описанию субъект РФ. (Каждый вопрос оценивается в 1 балл. Максимальное количество баллов – 10.)

1 1.Островная область России. Сахалинская область

1 2.На территории области располагается крайняя северная (островная) точка России. Архангельская область

1 3.На гербе этой области красуется верблюд. Челябинская область

1 4.В этой области начинается река Волга. Тверская область.

1 5.Эта область последней на территории России встречает Новый год. Калининградская обл.

1 6.В этой области находится «Родина Деда Мороза». Волгоградская область

1 7.К этому субъекту федерации относится курортный город Сочи. Краснодарский край

1 8.Этот субъект самый восточный в РФ. Чукотский автономный округ.

1 9.В этом субъекте находится Кунгурская ледяная пещера. Пермский край

1 10.На территории этого субъекта находится знаменитая долина гейзеров. Камчатский край

10б

2) Определить субъект РФ, если о нем известно следующее: (5 баллов)

- Эта область находится на западе России.
- Граничит с пятью областями России и со страной Ближнего Зарубежья, которая имеет выход в два южных моря бассейна Атлантического океана.
- Административный центр области был основан как крепость в X веке.
- В 1943 году здесь произошла решающая битва. Она началась 5 июля и продолжалась до 23 августа, 50 дней.

- Знаменитые люди: Шелихов Г.И. – русский мореход, исследователь; Преподобный Серафим Саровский; Свиридов Г.Е. – русский композитор.
- Имеется в городе Курчатов атомная электростанция.
- Регион знаменит своей магнитной аномалией. Курская область

5б

3) Определите регион России по его краткому описанию. (5 баллов)

Этот край имеет выход к двум морям, по суши граничит с одной из зарубежных стран. Большую часть территории занимает низменность, на юге расположены молодые высокие горы. Особенностью климата является непродолжительный холодный период года. Основные богатства края - агроклиматические и рекреационные. Ответ: Краснодарский

5б

4) Заполните пропуски в тексте: **(6 балла)**

«Эта акватория самая маленькая, самая пресная, самая холодная и самая мелководная среди себе подобных. Именно перелетом через Северный Ледовитый океан (напишите название этой акватории) в 1957 году прославился советский летчик Валерий Чкалов. В пределах этой акватории лежит одна из двух необычных точек Земли, которые имеют только одну географическую координату 90° с.ш. (укажите какую). Назовите эту точку Северный полюс.

6б

Этот архипелаг принадлежит и назван в честь второй по площади территории страны

мира, а также именно на его территории находится точка, на которую смотрят все стрелки

компасов. Назовите этот архипелаг Канадский Арктический

страну Канада и точку Магнитный полюс.

Задание VI. Решите географические задачи.

(Каждая задача оценивается в 1 балла. Максимальное количество баллов – 3.)

0 1) Определите примерную высоту горы, если известно, что у её подножья температура воздуха составляет +16°, а на её вершине-8°С (1 балл)

А.1, 3 км **Б.**4 км **В.**24 км **Г.**400м

1б 2) Какой и где находится российский остров, один берег которого омывается европейским морем, а другой - азиатским? Ответ: Новая земля Северный Ледовитый океан

0 3) Расположите регионы страны в той последовательности, в которой их жители встречают Новый год.

1. Красноярский край **2.** Краснодарский край **3.** Приморский край. 231

(Каждая задача оценивается в 3 балла. Максимальное количество баллов – 9.)

3б 4) Определите среднесуточную температуру воздуха по следующим данным: в 6 ч. +10^{0}С, в12 ч. +15^{0}С, в 18 ч. +13^{0}С, в 20 ч. +11^{0}С.

10 + 15 + 13 + 11 = 49 12,25°С

49 : 4 = 12,25°С

3б 5) Рассчитайте уровень безработицы в стране, если количество трудовых ресурсов составляет 18 млн. человек, а количество официально зарегистрированных безработных – 5,5 млн. человек.

18 млн – 100% 5,5 млн. – х% ⇒ х = 5,5 × 100 : 18 = 30,55 % 30,55%

6) Используя данные диаграммы, определите величину миграционного прироста населения Нижегородской области в 2008 г. Ответ запишите цифрами (в тысячах человек).

3б

20,0 + 10,2 + 6,8 = 37 прибывшие.

20,0 + 9,9 + 0,5 = 30,4 выбывшие.

Мигр. прирост = ~~При~~ 37 – 30,4 = 6,6 тыс ч. человек.

Распределение числа мигрантов по основным потокам передвижения, 2008 г. (тыс. человек)

7) Оцените, какой из участков, обозначенных на карте цифрами 1, 2 и 3, наиболее подходит для устройства тренировочного футбольного поля школьной команды. Для обоснования своего ответа приведите не менее двух доводов. (***Задача оценивается в 5 баллов***)

1) не подходит, так как за там болото
3) не подходит, там овраги.
так что 2) подходит больше

5б

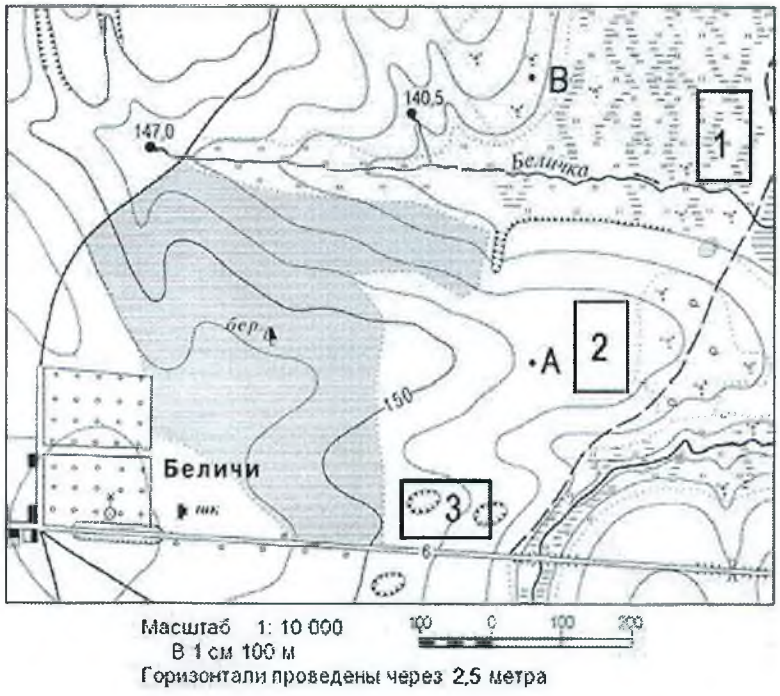

8. Найдите «лишний» объект в каждой цепочке и объясните свое решение
(***Задания оцениваются в 6 баллов.)***

0 1) Кубани – Лаба – Казбек - Егорлык - Скалистый - Кунгур - Маныч – Гудило
0 2) Пенжина - Оймякон - Джугджур - Ямал - Бурея - Терпения - Певек.
2б 3) Селигер - Эльтон - Кижи - Вилюй - Жигули - Вятка - Хибины. Все реки остальные из европейской России
Ответ:_____

9. Определите административный субъект Российской Федерации по контурам, надписям на рисунке и демографической ситуации. Назовите столицу субъекта
В этом субъекте расположена одна из крайних точек России, напишите ее название.
Рассчитайте показатели характеризующие население пропущенные в таблице (см. под рисунком)
(***Задания оцениваются в 9 баллов.)***

Республика Дагестан 3б
Столица Махачкала 2б
Южная точка 1б
г. Базардюзю 1б

Характеристика населения за 2012 г.

Среднегодовая численность населения **(тыс. чел)**	Число родившихся, **чел.**	Число умерших, **чел.**	Естественный прирост **в ‰** 37774	Площадь территории субъекта, **км²**	Плотность населения субъекта, **чел./км²**
2931	54646	16872	~~[illegible]~~	50270	58,3

1) 54646 − 16872 = 37774 ч.
2) 2931000 : 50270 = 58,3 ч/км²

$$\begin{array}{r} 54646 \\ -\ 16872 \\ \hline 37774 \end{array}$$

3б

$$\begin{array}{r|l} -\ 2931000 & 50270 \\ 251350 & \\ \hline 2679650 & 58,305 \\ -\ 402160 & \\ \hline 2274490 & \\ -\ 150810 & \\ \hline 2126800 & \\ -\ 251350 & \\ \hline 2101545 0 & \end{array}$$

9б

Олимпиада по географии 10-11 класс

Вопрос 1

На острове находятся две монархии и одна республика. В этой республике на другом острове обитает нечто «страшное». О чем идет речь? Определите остров, на котором находятся эти три государства, республику и остров, на котором проживает это «страшное».

Ответ Остров — Калимантан.-1б Республика Индонезия.1б
Остров Комодо. 1Б Нечто «страшное» — дракон острова Комодо (комодский варан).

итого: 3 балла

Вопрос 2

Определите страну по ее краткому описанию.

Территория страны полностью расположена в западном полушарии и при этом пересекается экватором. Страна является крупнейшей по численности населения на материке, на котором она расположена. Страна обладает огромными гидроэнергетическими ресурсами, по ее территории протекает много полноводных рек, поэтому большая часть электроэнергии в этой стране производится на ГЭС.

Ответ БРАЗИЛИЯ

итого 1 балл

Вопрос 3

Города какой из групп находятся в зоне средиземноморского климата?

а) Асуан, Рим, Атланта

б) Кейптаун, Перт, Сан-Франциско

в) Буэнос-Айрес, Барселона, Гибралтар

г) Афины, Бейрут, Тегеран

ответ б

итого 1 балл

Вопрос 4

Какой российский город расположен севернее широты города Сиэтл в США?

а) Хабаровск

б) Сочи

в) Краснодар

г) Махачкала

ответ а

итого 1 балл

Вопрос 5

Существует легенда, что бог, создав Землю, весь материал оказавшийся лишним свалил его в самом дальнем углу планеты. Так образовалась удивительная страна «сумасшедшей географии». Эта страна вытянулась вдоль океана у подножия высоких гор на четыре тысячи километров. Частые и сильные землетрясения меняют очертания ее берегов и облик ее ландшафтов. Здесь можно увидеть фьорды и лабиринты проливов среди островов, как в Норвегии, ледники, как в Швейцарии, тропические пустыни, где годами не выпадает ни капли дождя, и густые леса умеренного пояса.

Что это за страна?

Как называются в ней горы и пустыня?

С чем связаны частые и достаточно сильные землетрясения?

ответ Чили – 1 балл Анды – 1 балл Атакама – 1 балл

Нахождением страны в кайнозойском тихоокеанском геосинклинальном поясе, андийской области. Столкновение океанической и континентальной литосферных плит– 1 балл

итого: 4 балла

Вопрос 6

Какие горы называют: 1) «индийскими горами», 2) «крышей мира», 3) «крышей Африки», 4) «каменным поясом», 5) «матерью земли», 6) «лбом неба», 7) «медными горами», 8) «золотыми горами»

Ответ 1.Гиндукуш. 2.Памир. 3.Килиманджаро. 4.Урал. 5.Эверест. 6.Эверест . 7.Анды. 8.Алтай.

За каждый правильный ответ 1 балл

итого: 8 баллов

Вопрос 7

В том месте в Северном полушарии, где находится корабль Солнце находится в полдень под углом 53,5°. В этот же день Солнце находится в зените над параллелью 12.3°с.ш. На какой широте находится корабль? Решение записать.

Ответ 90° -63° = 27° ю.ш.-1 балл

итого: 1 балл

Вопрос 8

Какой континент пересекают все меридианы.

Ответ Антарктиду. -1 балл

итого: 1 балл

Вопрос 9

В стране с населением в 100 раз меньшим, чем в Индии (2013 г.) за год родилось 320 тыс. чел. и умерло 120 тыс. чел. Рассчитайте коэффициент естественного прироста в этой стране.

Ответ 16,7±1 промилле -1 балл

итого: 1 балл

Вопрос 10

Войдя в свой дом в Ханты-Мансийске (61° с.ш., 68° в.д.), лётчик сообщил жене, что завтра

ему предстоит перелёт на 8666 км, а потом еще на 833 км.

- Опять на север или в столицу? – спросила жена.

- Я бы так не сказал, хотя вылетать мне предстоит действительно в северном направлении, а трасса полёта прямая, как стрела, приземляться будем в столице, и не одной, а в двух.

Поясните ответ летчика и подсчитайте, на каком расстоянии от Ханты-Мансийска он уже не сможет утверждать, что летит на север.

Назовите предполагаемую конечную точку полёта и ее координаты

Координаты некоторых столиц

Широта	Долгота	Город	Столицей чего является	Страна
53,5° с.ш.	112° з.д.	Эдмонтон	провинция Альберта	Канада
45,5° с.ш.	68° з.д.	Шарлоттаун	провинция Остров Принца Эдуарда	Канада
44° с.ш.	68° з.д.	Галифакс	провинция Новая Шотландия	Канада
41° с.ш.	112° з.д.	Солт-Лейк-Сити	штат Юта	США
33,5° с.ш.	112° з.д.	Финикс	штат Аризона	США
12° с.ш.	68° з.д.	Виллемстад	Остров Кюрасао	Нидерланды
16° ю.ш.	68° з.д.	Ла-Пас	Боливия	Боливия
27° ю.ш.	112° з.д.	Ханга-Роа	Остров Пасхи	Чили

1° меридиана равен 111,1 км.(1 балл)

От Ханты-Мансийска до северного полюса – 29° градусов (90-61=29), или 3222 км. (1 балл)

Остается еще 5444 км (8666-3222=5444), т.е. 49° градусов от северного полюса. (1 балл)

После полета над северным полюсом уже нельзя утверждать, что самолет летит на север, он летит на юг (1 балл)

Т.е. точка имеет широту 41° с.ш. (90-49=41). (1 балл).

Меридиан с долготой 68° в.д. в западном полушарии продолжается меридианом с долготой 112° з.д. (180-68=112). (1 балл)

Таким образом, координаты искомой точки - 41° с.ш. и 112° з.д. (1 балл)

Это город Солт-Лейк-Сити – столица штата Юта в США (1 балл)

Вторая посадка будет через 833 км – это 7,5° с.ш. (833 : 111,1=7,5) (1 балл)

Вторая точка имеет широту 41° с.ш. – 7,5° с.ш. = 33,5° с.ш.(1 балл)

Таким образом, координаты второй точки – 33,5° с.ш. и 112° з.д. (1 балл)

ответ Это город Феникс – столица штата Аризона в США. (1 балл)

итого: 12 баллов

За всю работу : 33 балла

Всероссийская олимпиада
по географии
ученицы 11 класса
Мозырской СОШ №15
Витовтовой Дарьи

Вопрос 1

Остров - Калимантан

Республика - Индонезия

3б Остров - Комодо. Кечно „страшное" - дракон острова Комодо (комодский варан).

1б Вопрос 2 - Бразилия

1 Вопрос 3. - б)

0 Вопрос 4 - в)

3б Вопрос 5 - Страна - Чили, горы - Анды, пустыня - Атакама.

1б Нахождение страны в тихоокеанском поясе, андийской области. Столкновение океанической и континентальной литосферных плит

Вопрос 6

1 ✓ 1 - Гиндукуш

0 2 - Гималаи

3 - Килиманджаро 1

4 - Урал 1

5 - Эверест 1

6 - Эверест 1

7 - Анды 1

8 - Алтай 1

7

Вопрос 7. - 0

Вопрос 8 - Антарктида

№ 9 - 0

№ 10 - 0